Pallorivit kertolaskuksi

Montako riviä? Montako palloa yhdessä rivissä? Kirjoita kertolasku ja laske, montako palloa on yhteensä.

Nimi: _____ Päivä: _____



rivejä:

yhdessä rivissä:

□ · □ = □



rivejä:

yhdessä rivissä:

□ · □ = □



rivejä:

yhdessä rivissä:

□ · □ = □



rivejä:

yhdessä rivissä:

□ · □ = □



rivejä:

yhdessä rivissä:

□ · □ = □



rivejä:

yhdessä rivissä:

□ · □ = □



rivejä:

yhdessä rivissä:

□ · □ = □



rivejä:

yhdessä rivissä:

□ · □ = □

Vastaukset: Pallorivit kertolaskuksi

Vastaukset sivun 1 tehtäviin.



rivejä: **2**

yhdessä rivissä: **4**

2 · **4** = **8**



rivejä: **5**

yhdessä rivissä: **4**

5 · **4** = **20**



rivejä: **5**

yhdessä rivissä: **3**

5 · **3** = **15**



rivejä: **5**

yhdessä rivissä: **5**

5 · **5** = **25**



rivejä: **3**

yhdessä rivissä: **2**

3 · **2** = **6**



rivejä: **4**

yhdessä rivissä: **4**

4 · **4** = **16**



rivejä: **5**

yhdessä rivissä: **6**

5 · **6** = **30**



rivejä: **2**

yhdessä rivissä: **6**

2 · **6** = **12**